CISD Grade 2 Math Unit 13 SPANISH

Some questions (c) 2012 by CSCOPE.

1 Rafael hizo un patrón como el de un tablero de ajedrez en el siguiente recuadro. ¿Qué parte del recuadro está sombreada?

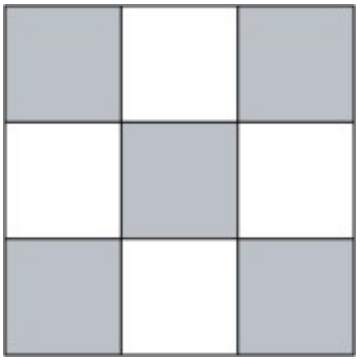

A Tres novenos

B Cinco novenos

C Cuatro quintos

2 Si Mark mete la mano en una caja de figuras, ¿qué figura es MÁS probable que saque?

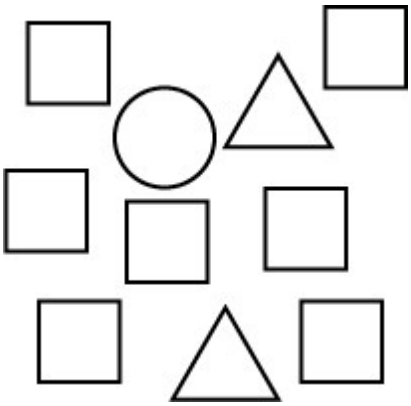

F Cuadrado

G Triángulo

H Círculo

3 Dawson dobló su hoja de papel en tres partes iguales. Luego sombreó un tercio de la hoja de papel. ¿Cuál de las siguientes hojas de papel está sombreada para mostrar un tercio?

A



B



C

GO ON

4 La Sra. Valentine colocó los siguientes objetos en el baúl de juguetes para los estudiantes que cumplen años. Cuando un estudiante meta la mano en el baúl de juguetes, ¿qué objeto es el MÁS probable que saque?

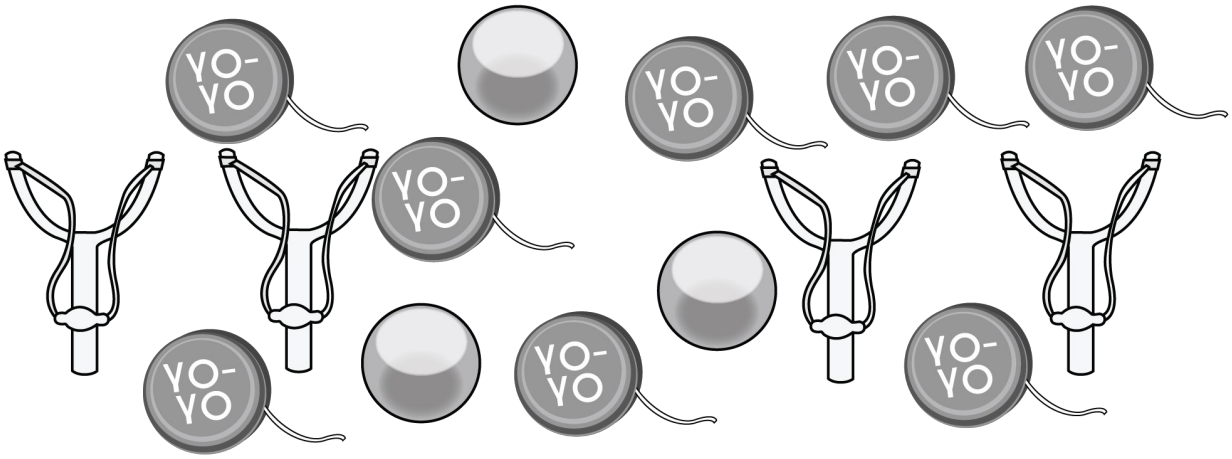

F Yo-yo

G Pelota pequeña

H Resortera

5 ¿Cuál de las tiras de fracciones de abajo muestra la parte sombreada más cercana a $\frac{1}{2}$?

A

B

C

6 Las siguientes monedas están en la mesa. Si Lori toma una moneda, ¿qué moneda es la MENOS probable que tome de este grupo?

F De cinco centavos

G De diez centavos

H De veinticinco centavos

7 Nicole y Hannah pusieron un puesto de limonada frente a su casa. Compraron 5 limones en la tienda. Las niñas necesitaban 3 limones para hacer una jarra de limonada. Colorea los limones para mostrar 3 de 5.

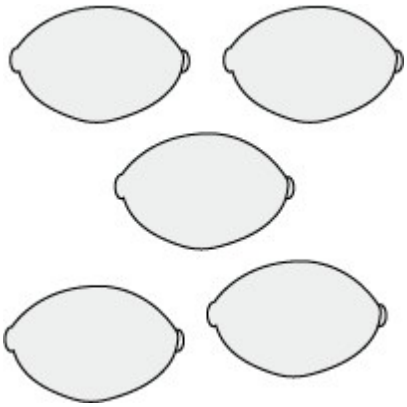

8 Mi abuela me hizo una cobija. La cobija está hecha con 8 recuadros de tela. 7 de los 8 recuadros tienen rayas.



¿Está la cantidad más cerca al 0, $\frac{1}{2}$ o 1?

F 0

G $\frac{1}{2}$

H 1

9 Anna hizo un pastel para su familia. Hay 4 personas en su familia. El hermano de Anna se comió un cuarto del pastel.

Usa el círculo de abajo para representar el pastel de Anna y sombrea la porción que se comió su hermano.



10 El maestro de educación física tiene 10 pelotas. 4 son de futbol y el resto son de básquetbol.

¿Qué fracción de las pelotas son de básquetbol?

F 4 de 5

G 5 de 12

H 6 de 10

11 Jamie recortó unas estrellas y unos corazones para hacer un dibujo para su maestro.



¿Qué fracción de las figuras que recortó son corazones?

A 5 de 6

B 6 de 11

C 5 de 8

BE SURE YOU HAVE RECORDED ALL OF YOUR ANSWERS ON YOUR ANSWER DOCUMENT

STOP